2024年度キッチンスペシャリスト資格試験
実技試験　解答用紙

受験タイプ	受験番号	氏名
総合　実技	—	

解答欄【1】　Kの計画主旨

（1）調理作業の効率を向上させるための工夫

30
50
60

（2）調理中に子どもを見守るための工夫

30
50
60

解答欄【2】　LDKの平面図　（S=1:30　1マス 150 mm）

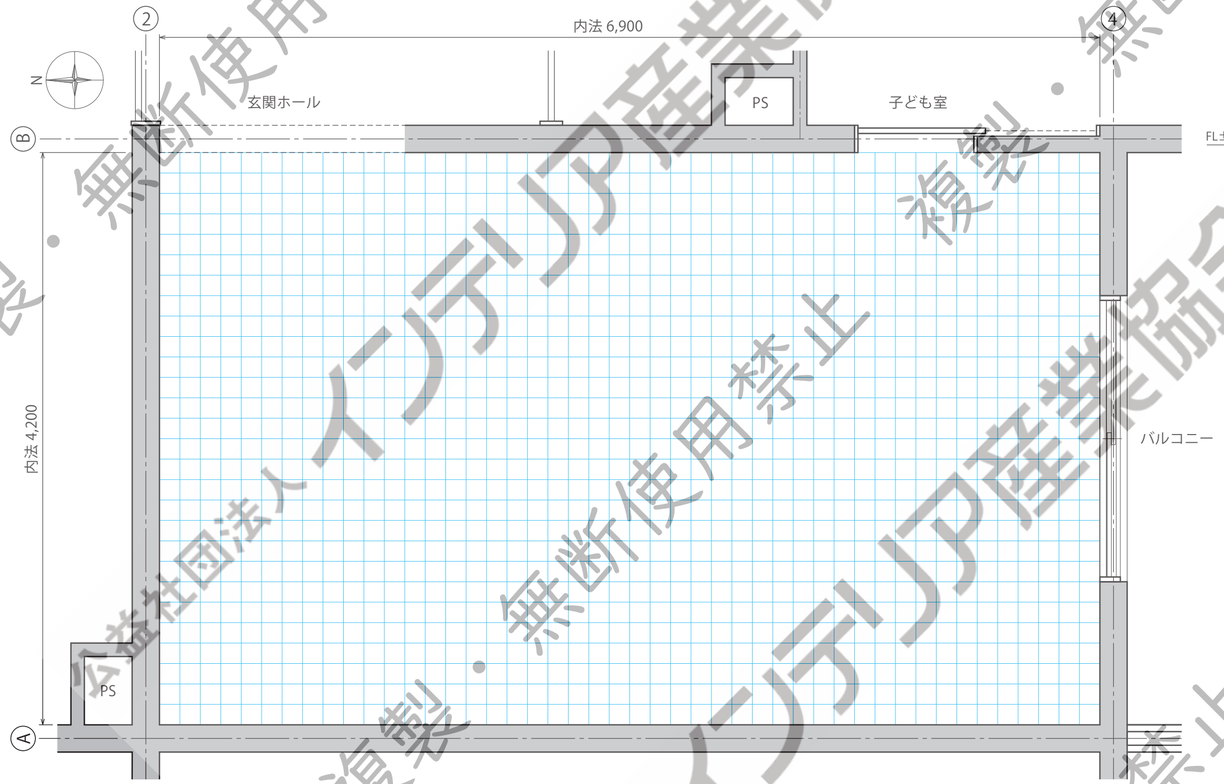

解答欄【3】　ワークトップの高さを導く略算式：＿＿＿＿＿＿＿＿＿＿　答の数値：＿＿＿＿＿＿

解答欄【4】　Kの展開図　（S=1:30　1マス 150 mm）



解答欄【5】　Kの透視図　一点透視パースガイド　（基本立体格子 300×300 mm）　図面名称：＿＿＿＿＿＿＿＿＿＿

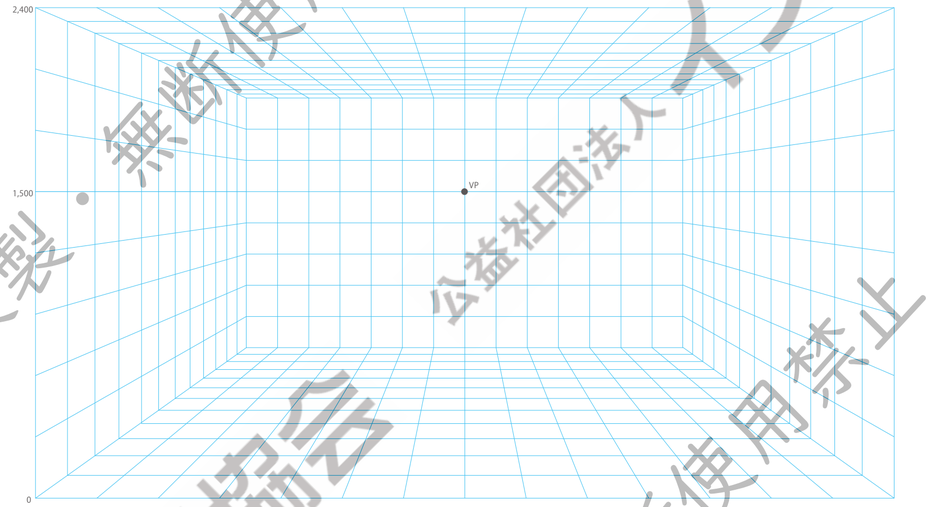

公益社団法人インテリア産業協会　複製・無断使用禁止